第28講　融合問題（地理・公民）

Step 1

1　次は，先生とえりこさん，たけしさんとの会話の一部である。(1)～(4)に答えなさい。

えりこさん　この前，祖母が人形浄瑠璃を見に行って話してくれたんだけど，徳島の人形浄瑠璃って，淡路から伝わってきたそうよ。

たけしさん　人形浄瑠璃は，江戸時代の大阪でもさかんだったと学習したね。

えりこさん　そうね。江戸時代の大阪といえば元禄文化の中心地だったし，天下の台所といわれ，各地の年貢米や特産物が取り引きされていたわね。徳島からは，年貢米や特産物である藍，砂糖などが送られていたそうよ。

先生　そうですね。特産物がたくさんありましたね。特産物は，船で大阪へ運ばれていたんですよ。当時近畿地方へ行く手段は船でしたね。鳴門の海に橋をかけようということは，大正時代に，徳島県の代議士が帝国議会に提案したんです。長い年月を経て，1985年に鳴門市と兵庫県淡路島を結ぶ大鳴門橋が，1998年には淡路島と神戸市を結ぶ［　　　］が完成し，県民の悲願であった本州四国連絡橋の①神戸・鳴門ルートが全通したんですよ。徳島と近畿地方が，うんと近くなりましたね。

えりこさん　私の家族は，よく高速バスを利用しているわ。

たけしさん　私の祖父が出荷する②野菜もトラックで大阪へ送られ，スーパーなどで販売されているそうだよ。

先生　③商品の流通も，インターネットの普及により，大きく変化してきていますね。

えりこさん　インターネットを使って，生産した野菜を直接消費者に販売している人もいるそうよ。

先生　徳島県でも，インターネットを利用することで，産業を発展させていこうとする取り組みが進められていますね。私たちも，徳島県の魅力を全国にもっと発信したいですね。

(1)　会話文中の［　　　］にあてはまる語句として適切なものを，ア～エから１つ選びなさい。

ア　因島大橋　　イ　来島海峡大橋　　ウ　瀬戸大橋　　エ　明石海峡大橋

(2)　下線部①の前後で，徳島と大阪・神戸の間の人やものの移動がどのように変化したと考えられるか，<u>適切でないもの</u>をア〜エから１つ選びなさい。

ア　徳島から大阪・神戸への移動にかかる時間が短縮された。

イ　徳島と大阪・神戸を結ぶ，フェリーの便数が増えた。

ウ　徳島から大阪・神戸に買い物に行く人が増えた。

エ　大阪・神戸から徳島を訪れる観光客が増えた。

(3)　下線部②について，資料は，大阪市中央卸売市場と大阪府中央卸売市場の 2014 年の数値をもとに，大阪の市場におけるさつまいもの月別入荷量と平均価格を表したものである。(a)・(b)に答えなさい。

資料

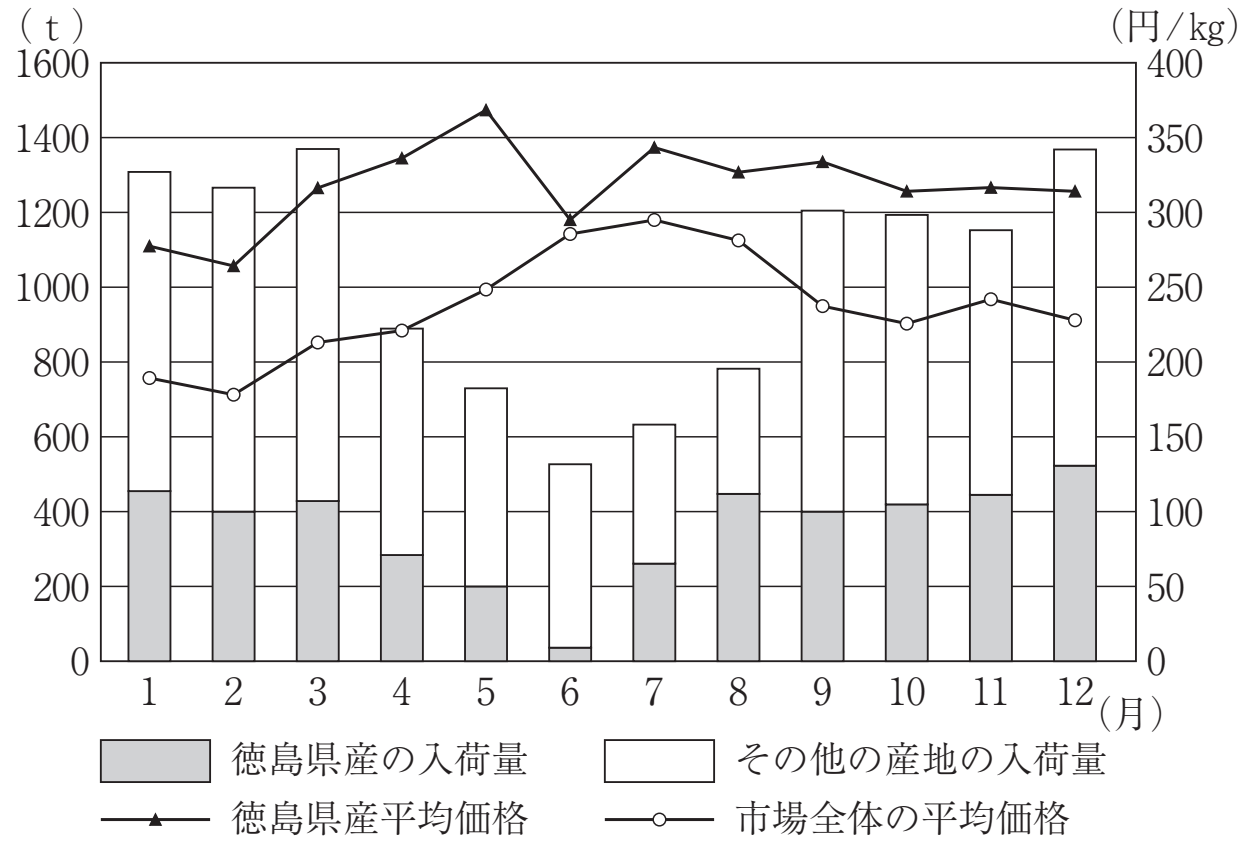

（「大阪市中央卸売市場年報」平成 26 年
「大阪府中央卸売市場年報」平成 26 年 より作成）

(a)　次の文は，資料から読み取れることをまとめたものである。文中の（ あ ）〜（ う ）にあてはまる語句を，それぞれ書きなさい。

徳島県産平均価格は，年間を通して市場全体の平均価格より（　あ　）なっている。また，３月から５月までの変化をみると，徳島県産とその他の産地をあわせた月別入荷量は（　い　）おり，市場全体の平均価格は（　う　）いる。

(b)　資料の徳島県産の入荷量と徳島県産平均価格について，２月と９月を比べ，読み取れることを書きなさい。また，読み取ったことから考えられることを「需要量」という語句を用いて，書きなさい。

(4) 下線部③において活用されているPOSシステムについて述べた文として最も適切なものを，ア～エから選びなさい。

ア　ICカードや携帯電話を利用した電子マネーで，商品を購入できるしくみ。

イ　消費者が，インターネットやカタログなどによって，商品を購入できるしくみ。

ウ　レジスターでバーコードなどから様々な情報を入力し，集計・管理するしくみ。

エ　小売業者が，生産者から直接大量の商品を仕入れ，消費者に安く売るしくみ。

【徳島県】

Step 2

2　次の文章を読み，あとの(1)～(3)の問いに答えなさい。

千葉県は$_a$畜産業がさかんです。江戸時代，安房国（あわのくに）の嶺岡牧（みねおかのまき）で日本の$_b$酪農が始まったといわれています。千葉県では多くの$_c$消費者に千葉県産の畜産物を届けようと，生産者などと連携してPR活動を展開しています。

(1)　下線部ａに関連して，次の資料１は，北海道，栃木県，鹿児島県及び千葉県の畜産物の産出総額と内訳を示したものである。A～Dのグラフは，それぞれどの道県のものか。その組み合わせとして最も適当なものを，あとのア～エのうちから一つ選び，その符号を書きなさい。

資料１　北海道，栃木県，鹿児島県及び千葉県の畜産物の産出総額と内訳（2013年）

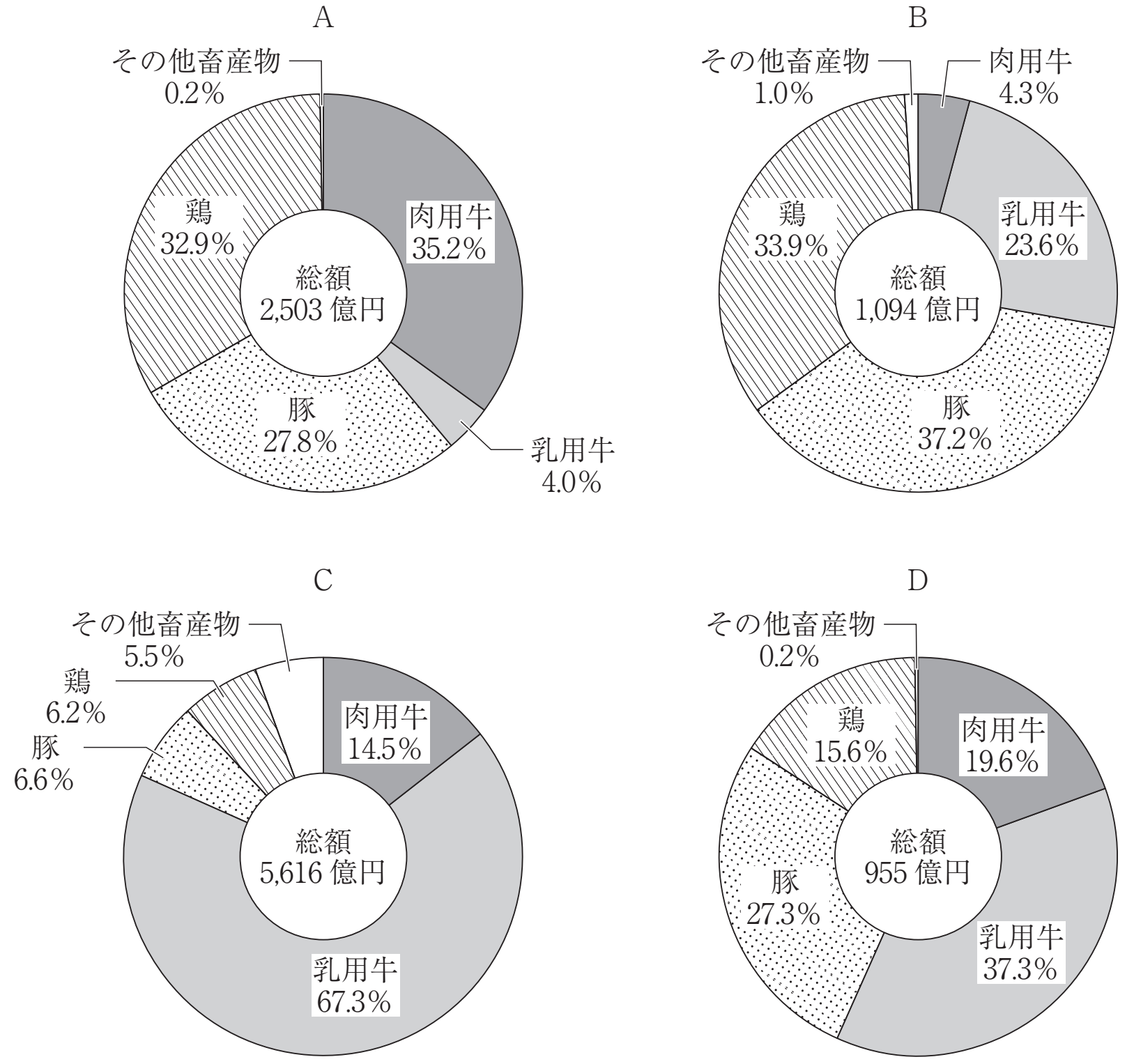

（注）　四捨五入の関係で，合計しても100%にならない場合がある。

（「農林水産省ホームページ」より作成）

ア　A：栃木県　　B：千葉県　　C：北海道　　D：鹿児島県

イ　A：鹿児島県　B：千葉県　　C：北海道　　D：栃木県

ウ　A：栃木県　　B：北海道　　C：千葉県　　D：鹿児島県

エ　A：鹿児島県　B：北海道　　C：千葉県　　D：栃木県

(2)　下線部 b に関連して，次の資料 2 は，牛乳に関するアンケート調査結果の一部である。男女別，さらに世代別にそれぞれの結果を見たとき，資料 2 から読み取れることとして最も適当なものを，あとのア～エのうちから一つ選び，その符号を書きなさい。

資料 2　牛乳に関するアンケート調査結果の一部

質問　あなたは「牛乳」のことを，「自分自身にとって，なくてはならない大切な食べ物（飲み物）である」と，どれくらい思いますか。

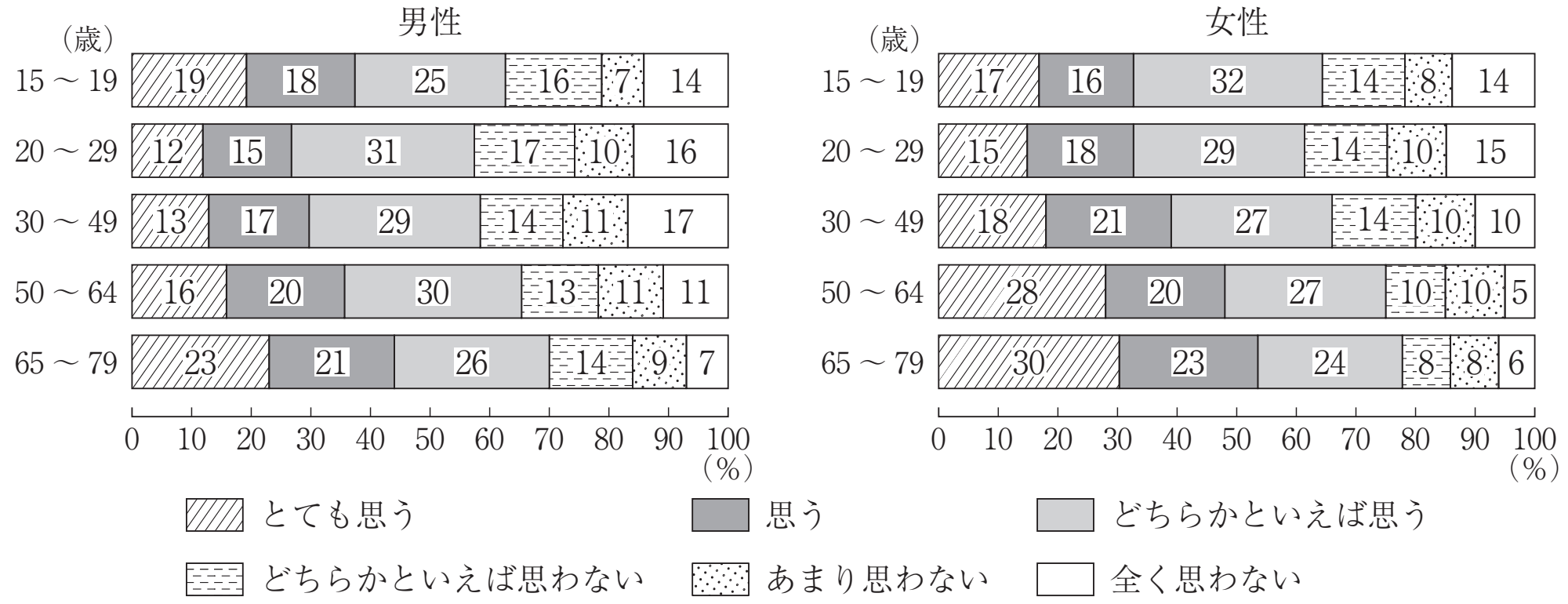

（注）　四捨五入の関係で，合計しても 100%にならない場合がある。

（一般社団法人Ｊミルク「牛乳乳製品に関する食生活動向調査 2014」より作成）

ア　「とても思う」と「思う」の割合の合計は，女性がすべての世代で 30 %以上であり，男性はすべての世代で 40 %以下である。

イ　「とても思う」と「思う」の割合の合計は，男性と女性，ともにすべての世代で「全く思わない」の割合の 2 倍を超えている。

ウ　「とても思う」，「思う」，「どちらかといえば思う」の割合の合計は，すべての世代で男性よりも女性の方が高い。

エ　「全く思わない」，「あまり思わない」，「どちらかといえば思わない」の割合の合計は，男性と女性，ともに 15～19 歳の世代が最も高い。

(3)　下線部 c に関連して，次の文章は，生産された商品が消費者に届くまでの流れについて述べたものである。文章中の ＿＿ に共通してあてはまる適当な語を**漢字 2 字**で書きなさい。

　生産された商品が，卸売業者や小売業者などを経て，最終的に消費者に届くまでの流れを商品の ＿＿ といい，＿＿ に関連する産業のうち，卸売業と小売業などを合わせて，商業という。なお，産地直送など，生産者が直接，消費者に販売する場合もある。

【千葉県】

Step　3

3　次の会話文を読んで，あとの問いに答えよ。

生徒：去年（2015年）イタリアで開催されたミラノ万博に，福井県小浜市や①三重県伊賀市が参加して話題になりましたね。

先生：伊賀といえば，忍者が②ヨーロッパでも知られています。松尾芭蕉の出身地でもあるね。

生徒：万博の会場で，伊賀市の特産品である牛肉や③日本酒の紹介もあったそうです。

先生：万博のテーマとして初めて「食」が取り上げられたからだよ。日本の展示館では，④和食や日本の食文化をPRしていたね。食の安全，飢餓・貧困や環境問題などの⑤世界的課題に対して日本ができる貢献のあり方も発信したようだね。

生徒：ミラノにある世界遺産に登録された教会に，⑥世界中から観光客が訪れている様子を映したテレビ報道も印象的でした。

(1)　下線の部分①について，資料1は三重県で多く生産されている，ある農作物の生産量（2008年）における上位5府県を示したものである。次の文も参考にして，農作物の名前を書け。

この作物は，温暖で雨が多く，水はけのよい土地での栽培に適している。

資料1

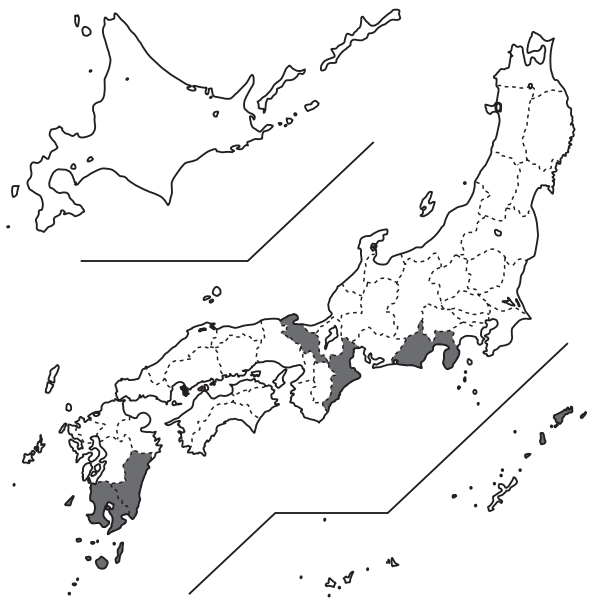

(2) 下線の部分②について，資料２はEU各国の一人あたりの国民総所得を，資料３は2008年当時のEU加盟国の加盟時期を示している。一人あたりの国民総所得と，EU加盟時期との関係から読み取れることを，解答欄の書き出しに続けて書け。

東ヨーロッパの国々の多くは（　　　　　　　　　　　　　　　　　　　　　　　　　　　　　）

資料２

一人あたりの国民総所得	国名
４万ドル以上	アイルランド，イギリス，オーストリア，オランダ，スウェーデン，デンマーク，ドイツ，フィンランド，フランス，ベルギー，ルクセンブルク
４万ドル未満 ２万ドル以上	イタリア，キプロス，ギリシャ，スペイン，スロベニア，ポルトガル
２万ドル未満	エストニア，スロバキア，チェコ，ハンガリー，ブルガリア，ポーランド，マルタ，ラトビア，リトアニア，ルーマニア

（統計資料は2008年，国名は五十音順）

資料３

(3) 下線の部分③について，日本酒など酒類には間接税がかけられている。次のAとBは間接税に関して述べた文である。それぞれの文が正しいか誤りかの組み合わせとして最も適当なものを，あとのア～エから一つ選んで記号で書け。

A　間接税には，酒税のほかに消費税や相続税などがあり，すべて国税に含まれる。

B　日本では，租税総額に占める割合は，間接税よりも直接税の方が大きい。

ア　AもBも正しい。　　　　イ　Aは正しい。Bは誤り。

ウ　Aは誤り。Bは正しい。　　エ　AもBも誤り。

⑷　下線の部分④について，資料４は日本における米の品種別作付比率の上位５品種を表したものである。表中のXは，福井県農業試験場で開発され，その後全国に普及した結果，30年以上も作付面積１位を維持している品種である。表中のXに適する語句を書け。

資料４

順位	品種名	割合(%)
1	X	36.4
2	ひとめぼれ	9.7
3	ヒノヒカリ	9.2
4	あきたこまち	7.2
5	ななつぼし	3.1

(統計資料は2014年,「米穀安定供給確保支援機構ホームページ」より作成)

⑸　下線の部分⑤について，世界的課題について述べた文として最も適当なものを，次のア～エから一つ選んで記号で書け。

ア　発展途上国は工業が発展していないため，深刻な地球環境問題は存在しない。

イ　栄養不足人口の割合が高い国は，アフリカに多い。

ウ　WTOは，食糧生産などによる飢餓撲滅を目的とする国連の専門機関である。

エ　南北問題は，南の先進工業国と北の発展途上国との間の経済格差が原因である。

⑹　下線の部分⑥について，ミラノの土産物店で，地元サッカーチームに所属する日本人選手の名前入りTシャツを買う場合，ユーロで支払えば20ユーロ，日本円で支払えば2,900円であったとする。為替相場が１ユーロ＝136円のとき，どちらの通貨で支払うと，日本円で何円分安く購入できるか答えよ。なお，手数料や税金などは考慮しないものとする。

（　　　）で支払うと（　　　）円分安く購入できる。

【福井県】

第28講　融合問題（地理・公民）

Step 1

1 (1) エ　(2) イ　(3) (a) (あ) 高く　(い) 減少して　(う) 上昇して（それぞれ同意可）　(b) 2月と9月の入荷量はほぼ同じであるが，9月の平均価格のほうが高い。それは，9月のほうが需要量が多いためであると考えられる。（同意可）　(4) ウ

Step 2

2 (1) イ　(2) ウ　(3) 流通

Step 3

3 (1) 茶　(2)（東ヨーロッパの国々の多くは）2001年以降にEUに加盟しており，一人あたりの国民総所得が2万ドル未満である。（同意可）　(3) ウ　(4) コシヒカリ　(5) イ
(6) ユーロ（で支払うと）180（円分安く購入できる。）